La verdad joven Pasatiempos

Especial fin de semana

Como dijo el otro

Importa mucho más lo que tú pienses de tí mismo que lo que los otros opinan de tí.

SENECA

Ojo atento



¿A cuál de las siete cabras numeradas corresponde la silueta del ángulo superior izquierdo?

CUADRO NUMERICO

C	X	E	:	2	=	6
+		+		+		-
F	X	B	+	E	=	D
-		-		-		-
E	-	5	+	C	=	B
=		=		=		=
2	+	A	+	1	=	E



Sustituyanse las letras por números, mediante un sencillo sistema de ecuaciones, para que vertical y horizontalmente resulten las operaciones indicadas.

PUZZLE



A	I	D	F	G	H	K	L	M	O	R	T
D	E	G	H	L	A	I	B	A	C	U	R
E	G	R	S	R	T	U	D	F	A	C	I
R	S	T	O	P	R	A	I	V	U	V	M
T	U	H	G	F	C	G	M	Q	U	M	E
S	B	I	S	E	M	A	N	A	I	I	S
E	I	J	D	A	Ñ	I	L	M	O	L	T
M	E	D		I	C	D	N	O	R	E	R
E	N	O	R	S	A	C	E	U	V	N	E
S	I	G	L	O	R	S	T	U	T	I	S
H	O	P	R	S	Ñ	O	R	S	T	O	R
L	U	S	T	R	O	A	I	C	D	E	G

En este cuadro de letras están contenidos los períodos de tiempo a que se refieren las viñetas que rodean el mismo. Se leen de izquierda a derecha, de derecha a izquierda, de arriba abajo, de abajo arriba y en diagonal, al derecho o al revés. Trazando una línea alrededor de cada palabra, procure localizarlas todas, teniendo en cuenta que una letra puede formar parte de dos o más palabras por cruzarse éstas.

HUMOR SIN PALABRAS



PROBLEMAS TONTOS

1.—¿Cómo sería posible saber los años que tiene una taza?

2.—El matrimonio Martínez tiene siete hijas y cada hija tiene un hermano. ¿Cuántas personas en total componen la familia Martínez?

3.—Cada mochuelo en su olivo y sobra un mochuelo; en cada olivo dos mochuelos y sobra un olivo. ¿Cuántos olivos y cuántos mochuelos son?

4.—¿Cómo se podría demostrar que la mitad de doce no son seis?

5.—¿En qué se parece un rebaño de ovejas a un campo de batalla?

Discoteca PICOS

(La huella de un estilo)
MOLINA DE SEGURA

HOY, SABADO TARDE

I CAMPEONATO REGIONAL BAILE DISCOTECA

PREMIOS: 50.000 PTAS. FINALISTAS Y TROFEOS

Entre los miembros del jurado cabe destacar al actor JUAN CARLOS NAYA.

NOCHE

HOMENAJE AL ACTOR QUE INTERVINO EN LA SERIE DE TVE "LA BARRACA", CON EL NOMBRE DE "TONET"

Juan Carlos Naya

Próximo sábado, BIBI ANDERSEN presentará su L. P. en DISCOTECA PICOS.

VENDO NAVES

— 500, 1.000 Y 2.000 METROS —

TELEFONO 231162 — MURCIA — SRTA. JORDAN

Soluciones

Al ojo atento

A la cabra número 5 (cinco)

Al cuadro numérico

4	X	3	:	2	=	6
+		+		+		+
1	X	2	+	3	=	5
-		-		-		+
3	-	5	+	4	=	2
=		=		=		=
2	+	0	+	1	=	3

Al puzzle

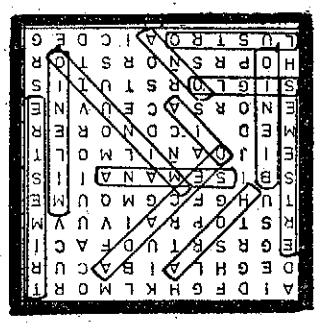

A los problemas tontos

1.—Dejándola caer al suelo y, una vez rota, contando: un añico, dos añicos, tres añicos...

2.—Diez: los padres, las siete hijas y un hijo, que es, naturalmente, el hermano de cada una de las hijas.

3.—Tres olivos y cuatro mochuelos.

4.—Escribiendo XII (en números romanos) y trazando una raya por la mitad. Da siete (también en números romanos).

5.—En que una "bala" por aquí y otra "bala" por allá.